ЧТЕНИЕ КАРТ РАЗЛИЧНОГО СОДЕРЖАНИЯ

12 ЗАДАНИЕ

Подготовил: Лукиных И.А.,
учитель географии
СП школа р.п.Сараны

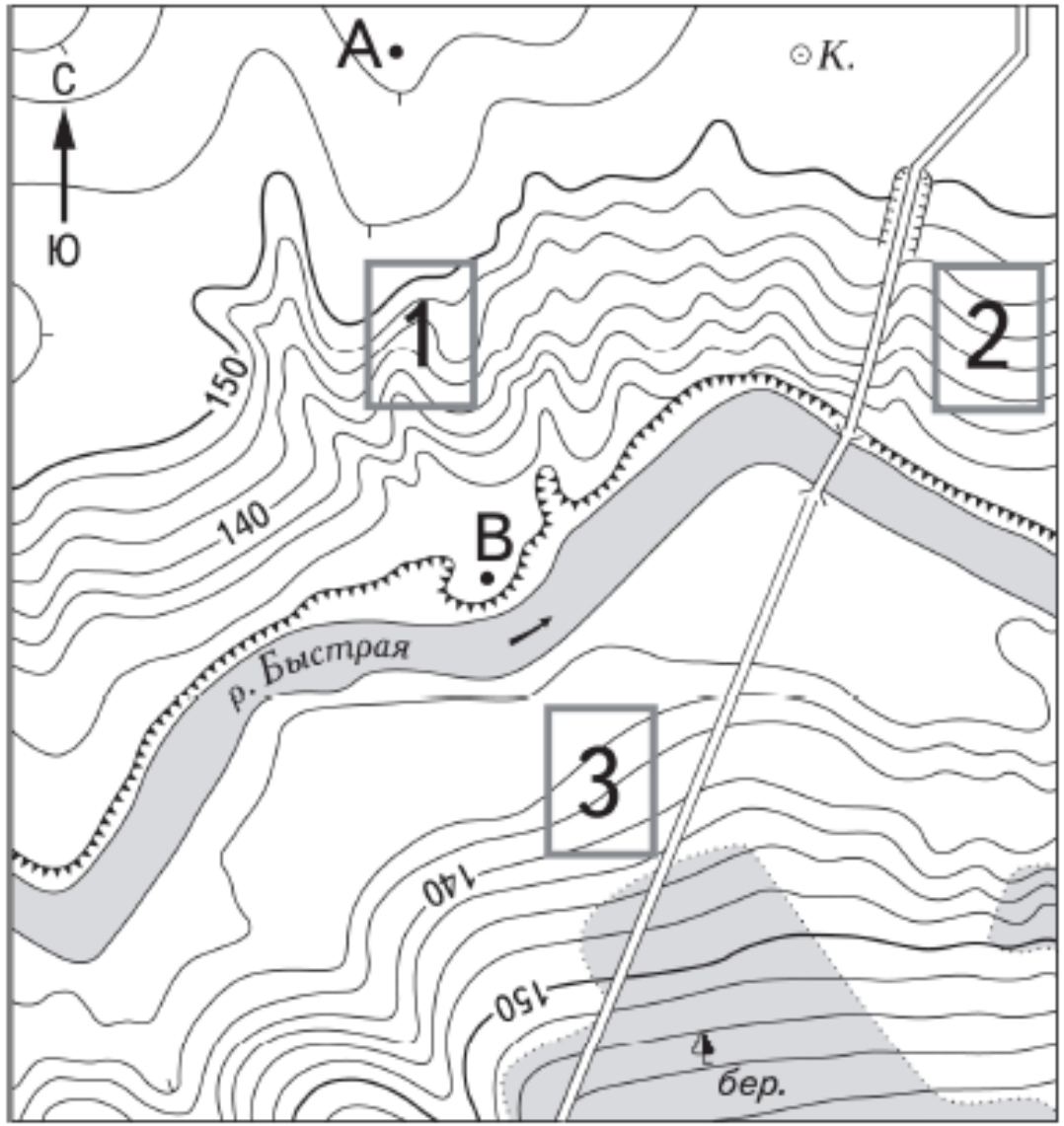

К. Колодец

Лес

Обрыв

Шоссе

Мост

Масштаб 1:10 000

В 1 см 100 м

100 0 100 200

Горизонтали проведены через 2,5 метра

РЕШУОГЭ.РФ

ЗАДАНИЕ № 12

ГЛАВНОЕ ПРАВИЛО!

Фермер выбирает участок для закладки нового фруктового сада. Ему нужен участок, на котором весной рано сходит снег, а летом почва лучше всего прогревается солнцем. Он также должен иметь расположение, удобное для вывоза собранного урожая на консервный завод. Определите, какой из участков, обозначенных на карте цифрами 1, 2 и 3, больше всего отвечает указанным требованиям. Для обоснования своего ответа приведите **два довода**.

ЗАДАНИЕ №12

1 Вариант

Санки

Горные лыжи

ЗАДАНИЕ №12

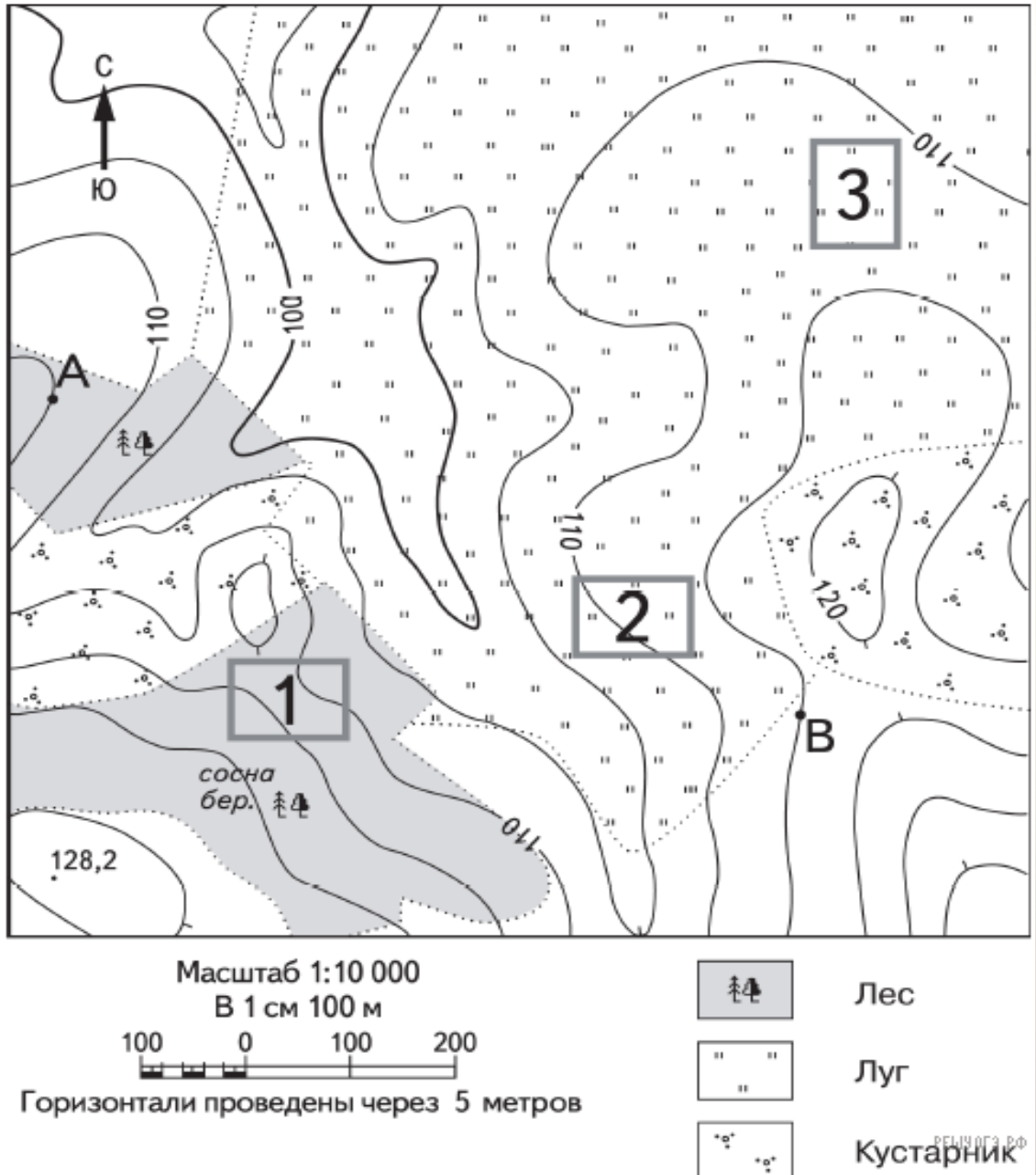

ШКОЛЬНИКИ ВЫБИРАЮТ МЕСТО ДЛЯ КАТАНИЯ НА САНКАХ. ОЦЕНИТЕ, КАКОЙ ИЗ УЧАСТКОВ, ОБОЗНАЧЕННЫХ НА КАРТЕ ЦИФРАМИ 1, 2 И 3, БОЛЬШЕ ВСЕГО ПОДХОДИТ ДЛЯ ЭТОГО. ДЛЯ ОБОСНОВАНИЯ СВОЕГО ОТВЕТА ПРИВЕДИТЕ ДВА ДОВОДА.

ЗАДАНИЕ №12

ШКОЛЬНИКИ ВЫБИРАЮТ МЕСТО ДЛЯ КАТАНИЯ НА САНКАХ. ОЦЕНИТЕ, КАКОЙ ИЗ УЧАСТКОВ, ОБОЗНАЧЕННЫХ НА КАРТЕ ЦИФРАМИ 1, 2 И 3, БОЛЬШЕ ВСЕГО ПОДХОДИТ ДЛЯ ЭТОГО. ДЛЯ ОБОСНОВАНИЯ СВОЕГО ОТВЕТА ПРИВЕДИТЕ ДВА ДОВОДА.

правила:

ПИШИ ПОНЯТНО

ПИШИ ПРАВИЛЬНО

ФОРМУЛИРУЙ ЧЁТКО

ЗАДАНИЕ №12

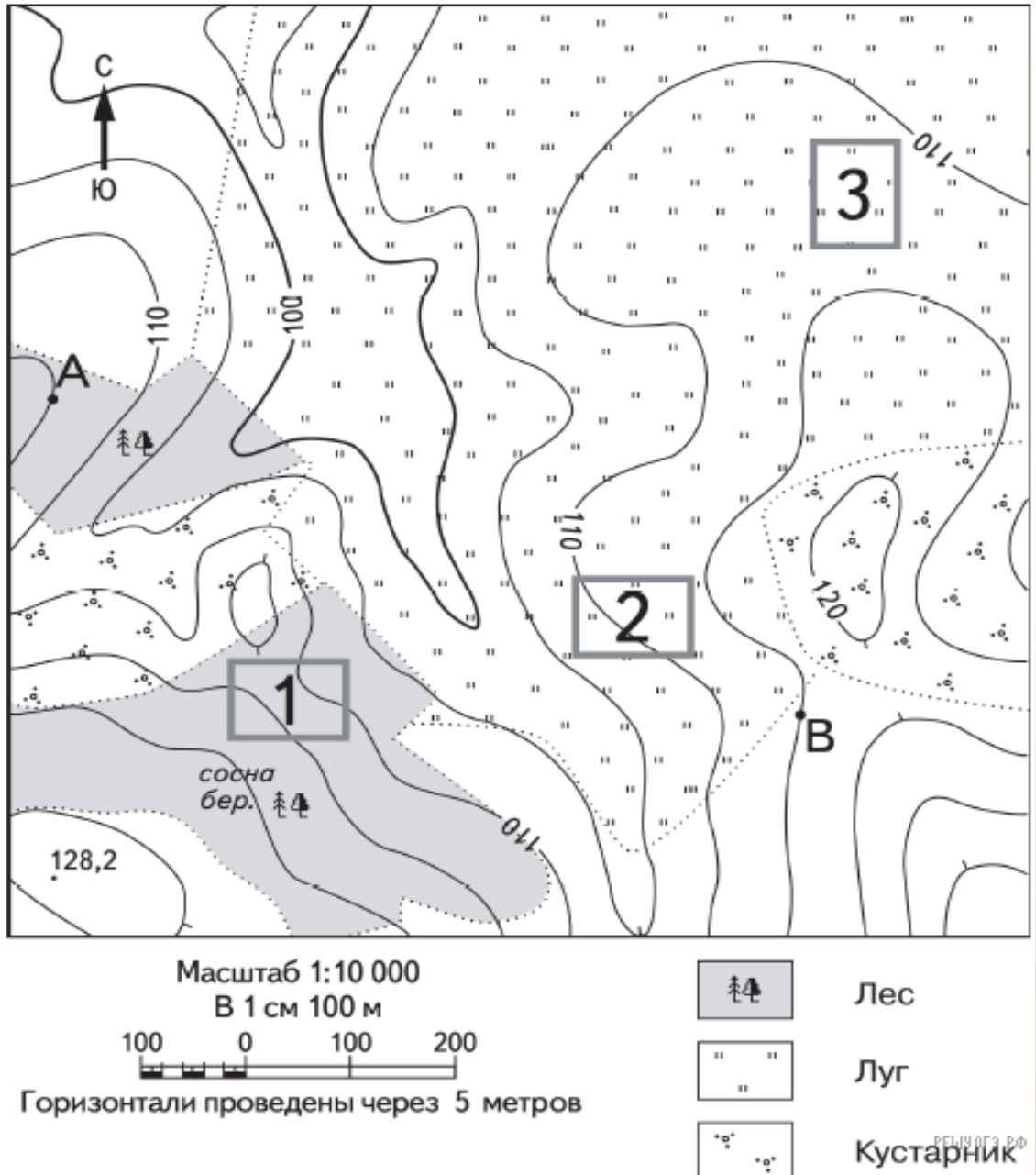

ШКОЛЬНИКИ ВЫБИРАЮТ МЕСТО ДЛЯ КАТАНИЯ НА САНКАХ. ОЦЕНИТЕ, КАКОЙ ИЗ УЧАСТКОВ, ОБОЗНАЧЕННЫХ НА КАРТЕ ЦИФРАМИ 1, 2 И 3, БОЛЬШЕ ВСЕГО ПОДХОДИТ ДЛЯ ЭТОГО. ДЛЯ ОБОСНОВАНИЯ СВОЕГО ОТВЕТА ПРИВЕДИТЕ ДВА ДОВОДА.

*Для катания на санках подходит участок **2**, так как:*

1)Он расположен на склоне

2)Нет препятствий в виде леса

ЗАДАНИЕ №12

1 Вариант

Санки

Горные лыжи

2 Вариант

Футбольное поле

Спортивная площадка

ЗАДАНИЕ №12

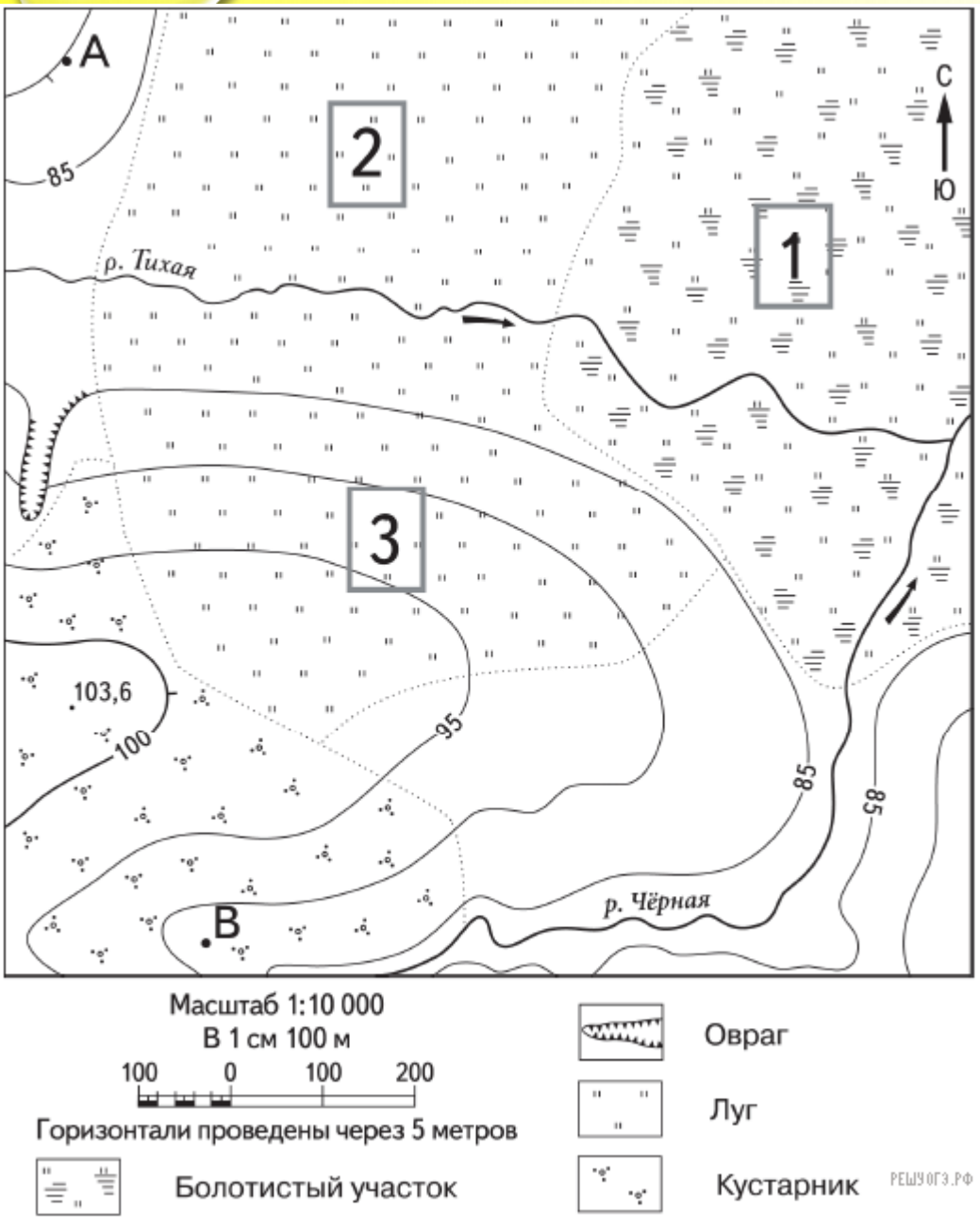

ШКОЛЬНИКИ ВЫБИРАЮТ МЕСТО ДЛЯ ИГРЫ В ФУТБОЛ. ОЦЕНИТЕ, КАКОЙ ИЗ УЧАСТКОВ, ОБОЗНАЧЕННЫХ НА КАРТЕ ЦИФРАМИ 1, 2 И 3, БОЛЬШЕ ВСЕГО ПОДХОДИТ ДЛЯ ЭТОГО. ДЛЯ ОБОСНОВАНИЯ СВОЕГО ОТВЕТА ПРИВЕДИТЕ ДВА ДОВОДА.

ЗАДАНИЕ №12

Школьники выбирают место для игры в футбол. Оцените, какой из участков, обозначенных на карте цифрами 1, 2 и 3, больше всего подходит для этого. Для обоснования своего ответа приведите два довода.

Задание № 12

Для игры в футбол подходит участок 2 так как:

1) Это ровная площадка

2) Нет препятствий в виде болота

ЗАДАНИЕ №12

1 Вариант

Санки

Горные лыжи

2 Вариант

Футбольное поле

Спортивная площадка

3 Вариант

Фруктовый сад

ЗАДАНИЕ №12

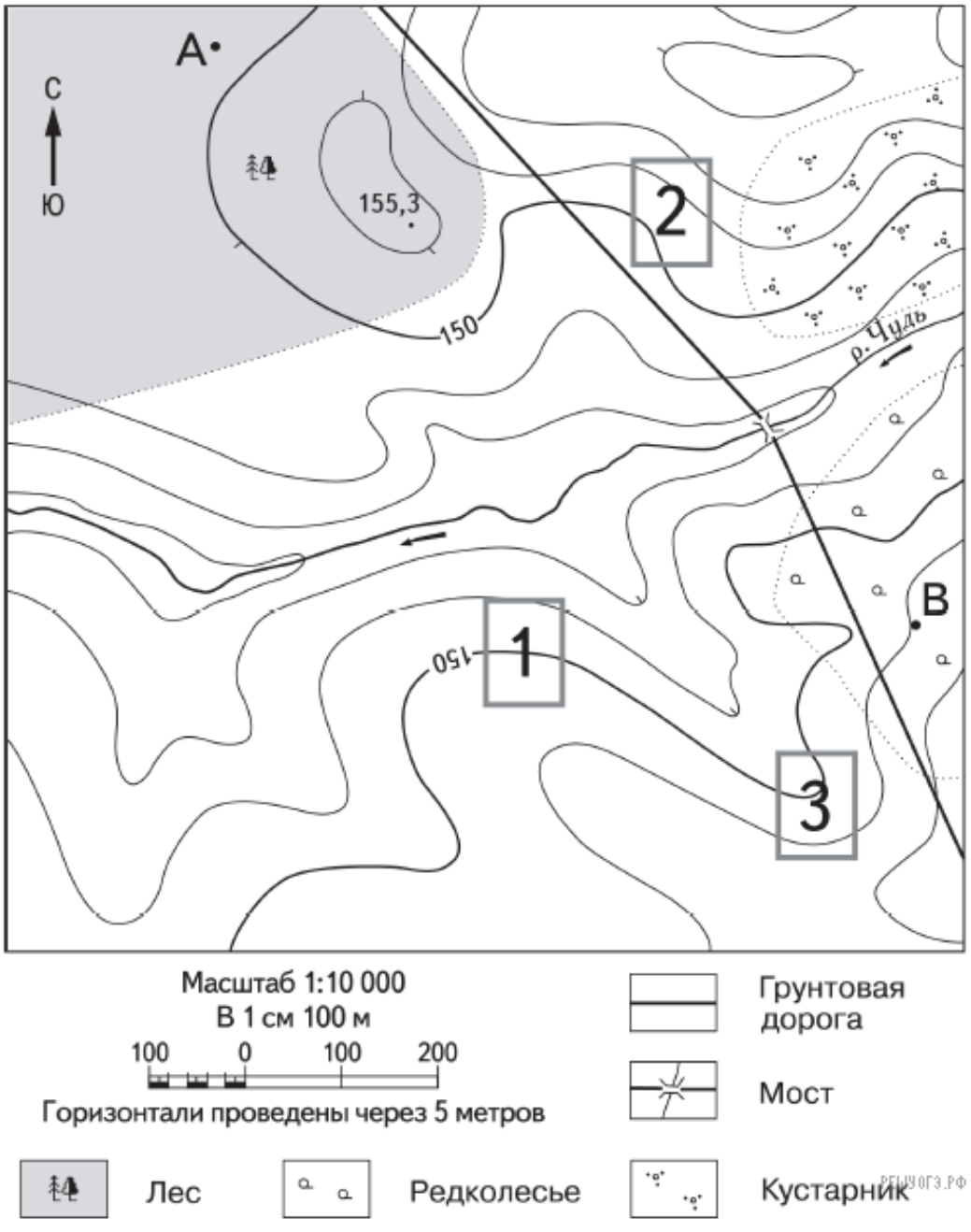

- ФЕРМЕР ВЫБИРАЕТ УЧАСТОК ДЛЯ ЗАКЛАДКИ НОВОГО ФРУКТОВОГО САДА. ЕМУ НУЖЕН **УЧАСТОК, НА КОТОРОМ ВЕСНОЙ РАНО СХОДИТ СНЕГ**, А ЛЕТОМ ПОЧВА ЛУЧШЕ ВСЕГО ПРОГРЕВАЕТСЯ СОЛНЦЕМ. ОН ТАКЖЕ ДОЛЖЕН ИМЕТЬ **РАСПОЛОЖЕНИЕ, УДОБНОЕ ДЛЯ ВЫВОЗА СОБРАННОГО УРОЖАЯ НА КОНСЕРВНЫЙ ЗАВОД**. ОПРЕДЕЛИТЕ, КАКОЙ ИЗ УЧАСТКОВ, ОБОЗНАЧЕННЫХ НА КАРТЕ ЦИФРАМИ 1, 2 И 3, БОЛЬШЕ ВСЕГО ОТВЕЧАЕТ УКАЗАННЫМ ТРЕБОВАНИЯМ. ДЛЯ ОБОСНОВАНИЯ СВОЕГО ОТВЕТА ПРИВЕДИТЕ ДВА ДОВОДА.

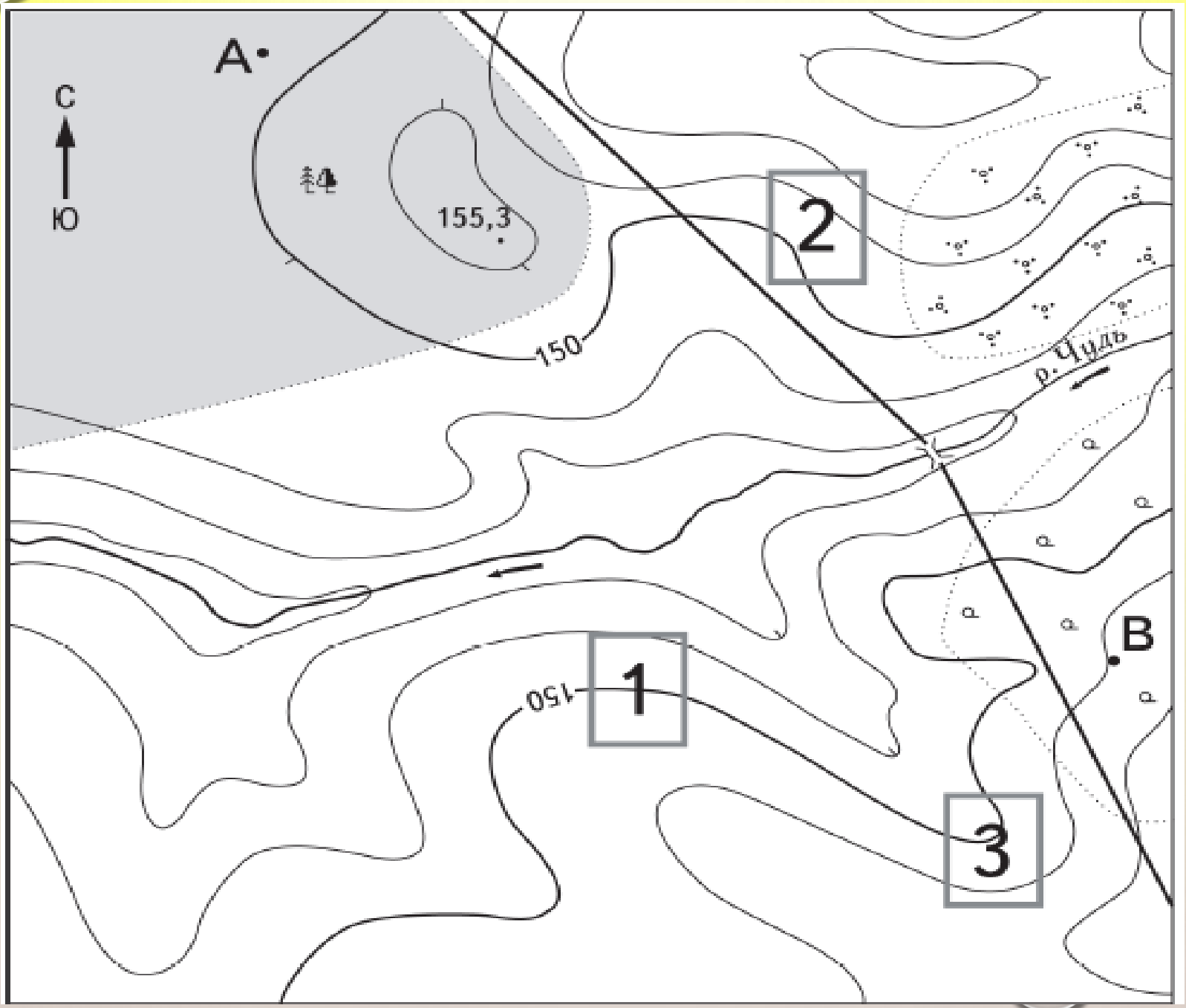
A
С
Ю
155,3
150
2
р. Чудь
B
150
1
3

С

Ю

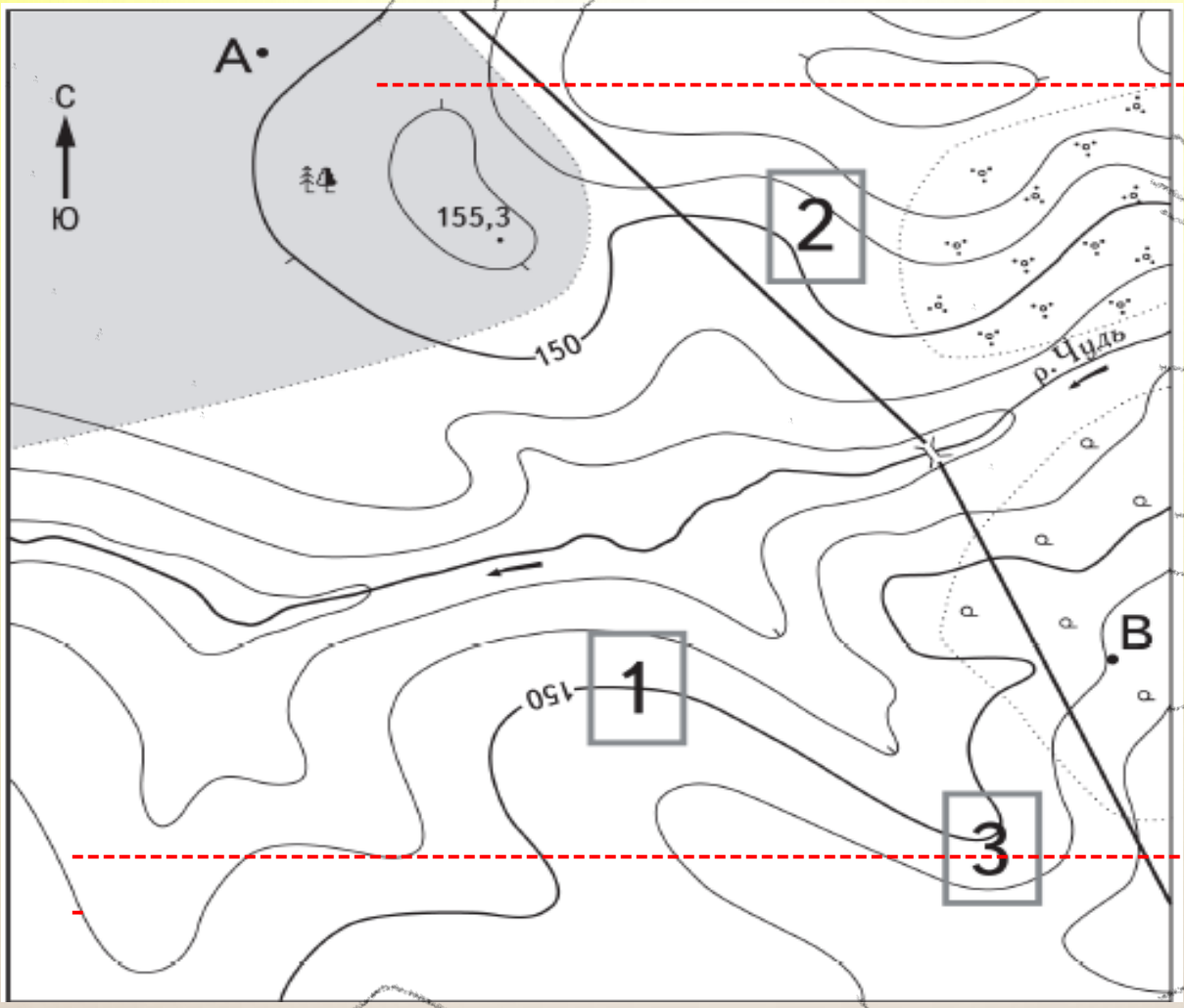

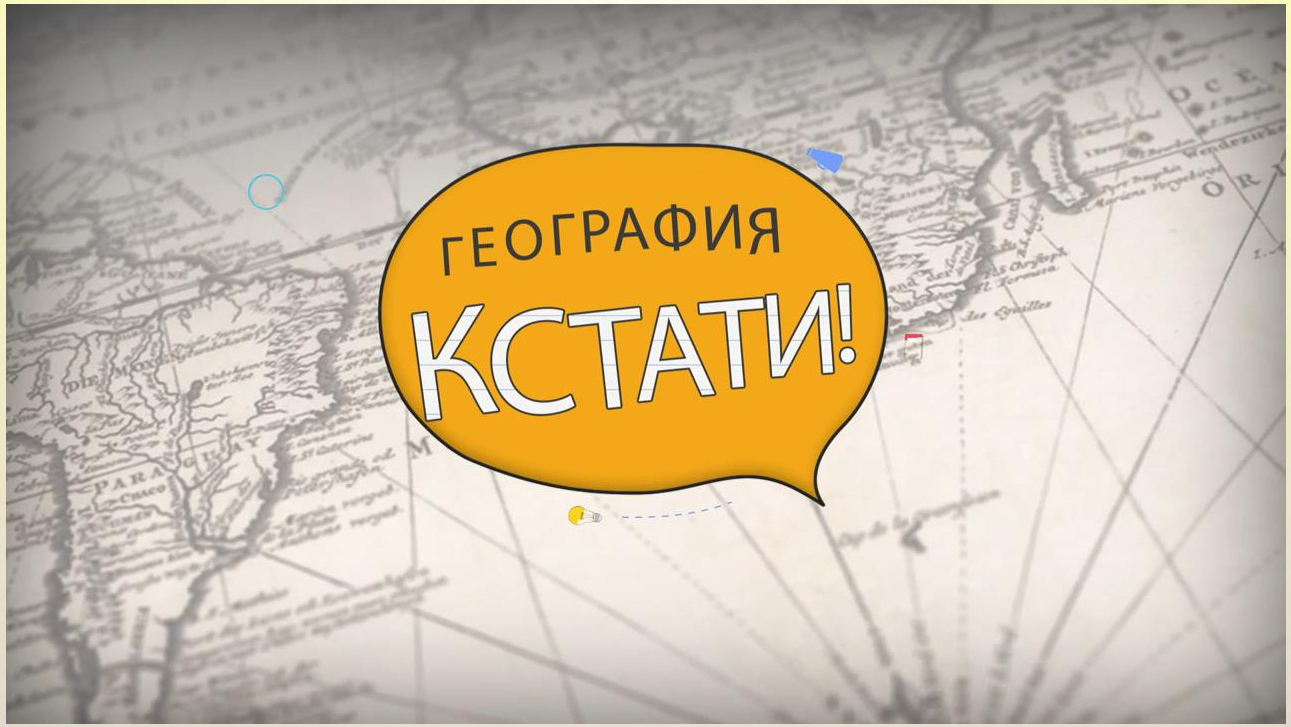
ГЕОГРАФИЯ
КСТАТИ!

ЗАДАНИЕ №12

- ФЕРМЕР ВЫБИРАЕТ УЧАСТОК ДЛЯ ЗАКЛАДКИ НОВОГО ФРУКТОВОГО САДА. ЕМУ НУЖЕН **УЧАСТОК, НА КОТОРОМ ВЕСНОЙ РАНО СХОДИТ СНЕГ**, А ЛЕТОМ ПОЧВА ЛУЧШЕ ВСЕГО ПРОГРЕВАЕТСЯ СОЛНЦЕМ. ОН ТАКЖЕ ДОЛЖЕН ИМЕТЬ **РАСПОЛОЖЕНИЕ, УДОБНОЕ ДЛЯ ВЫВОЗА СОБРАННОГО УРОЖАЯ НА КОНСЕРВНЫЙ ЗАВОД**. ОПРЕДЕЛИТЕ, КАКОЙ ИЗ УЧАСТКОВ, ОБОЗНАЧЕННЫХ НА КАРТЕ ЦИФРАМИ 1, 2 И 3, БОЛЬШЕ ВСЕГО ОТВЕЧАЕТ УКАЗАННЫМ ТРЕБОВАНИЯМ. ДЛЯ ОБОСНОВАНИЯ СВОЕГО ОТВЕТА ПРИВЕДИТЕ ДВА ДОВОДА.

Задание № 12

Для закладки нового фруктового сада подходит участок 2 так как:

1) **Участок расположен на склоне южной экспозиции**
2) **Рядом проходит грунтовая дорога, что удобно для вывоза урожая**

ЗАДАНИЕ №12

1 Вариант

Санки

Горные лыжи

2 Вариант

Футбольное поле

Спортивная площадка

3 Вариант

Фруктовый сад

ЗАДАНИЕ №12

Фермер выбирает участок для закладки нового фруктового сада. Ему нужен участок, на котором весной рано сходит снег, а летом почва лучше всего прогревается солнцем. Он также должен иметь расположение, удобное для вывоза собранного урожая на консервный завод. Определите, какой из участков, обозначенных на карте цифрами 1, 2 и 3, больше всего отвечает указанным требованиям. Для обоснования своего ответа приведите два довода.

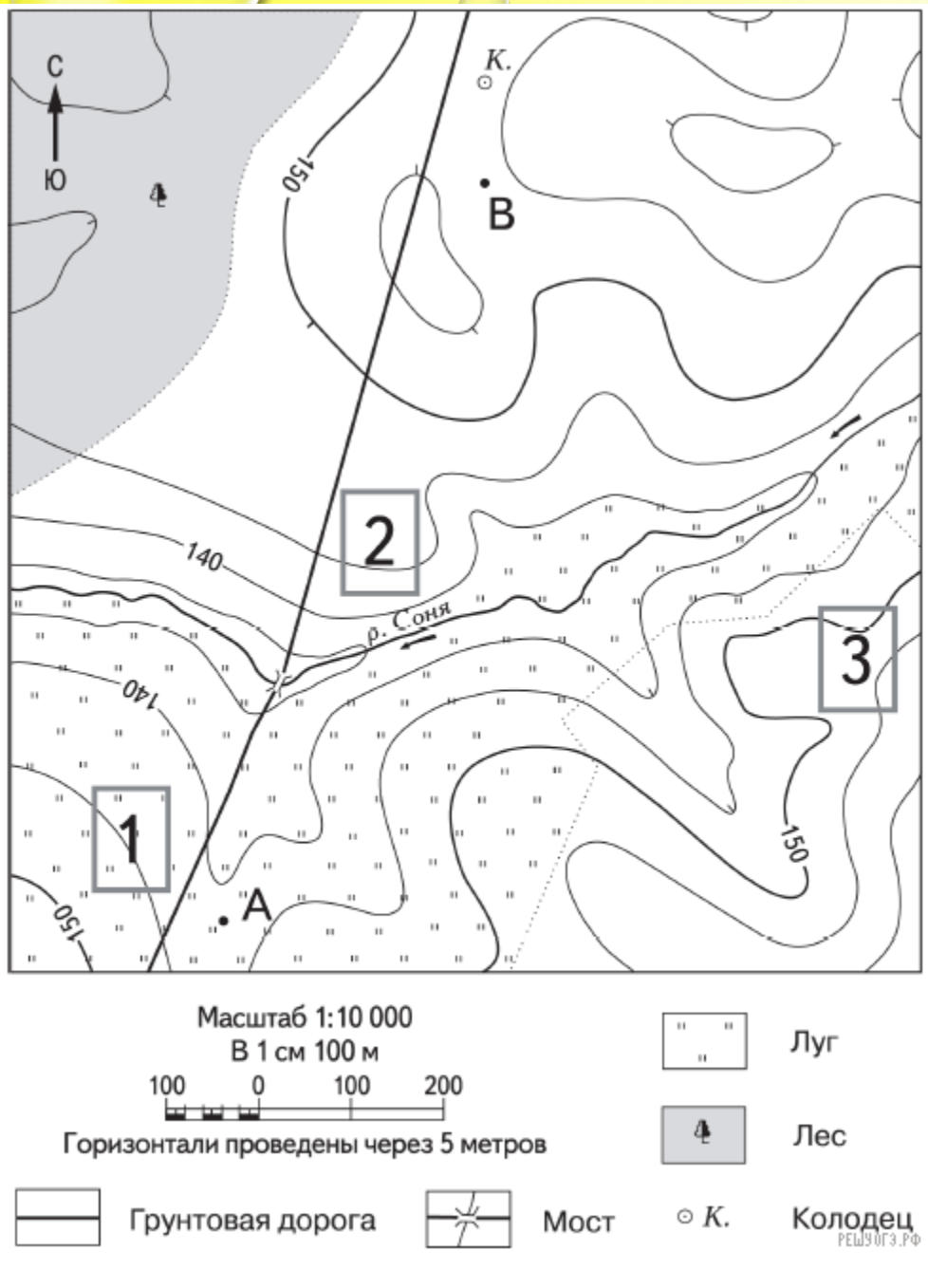

ЗАДАНИЕ №12

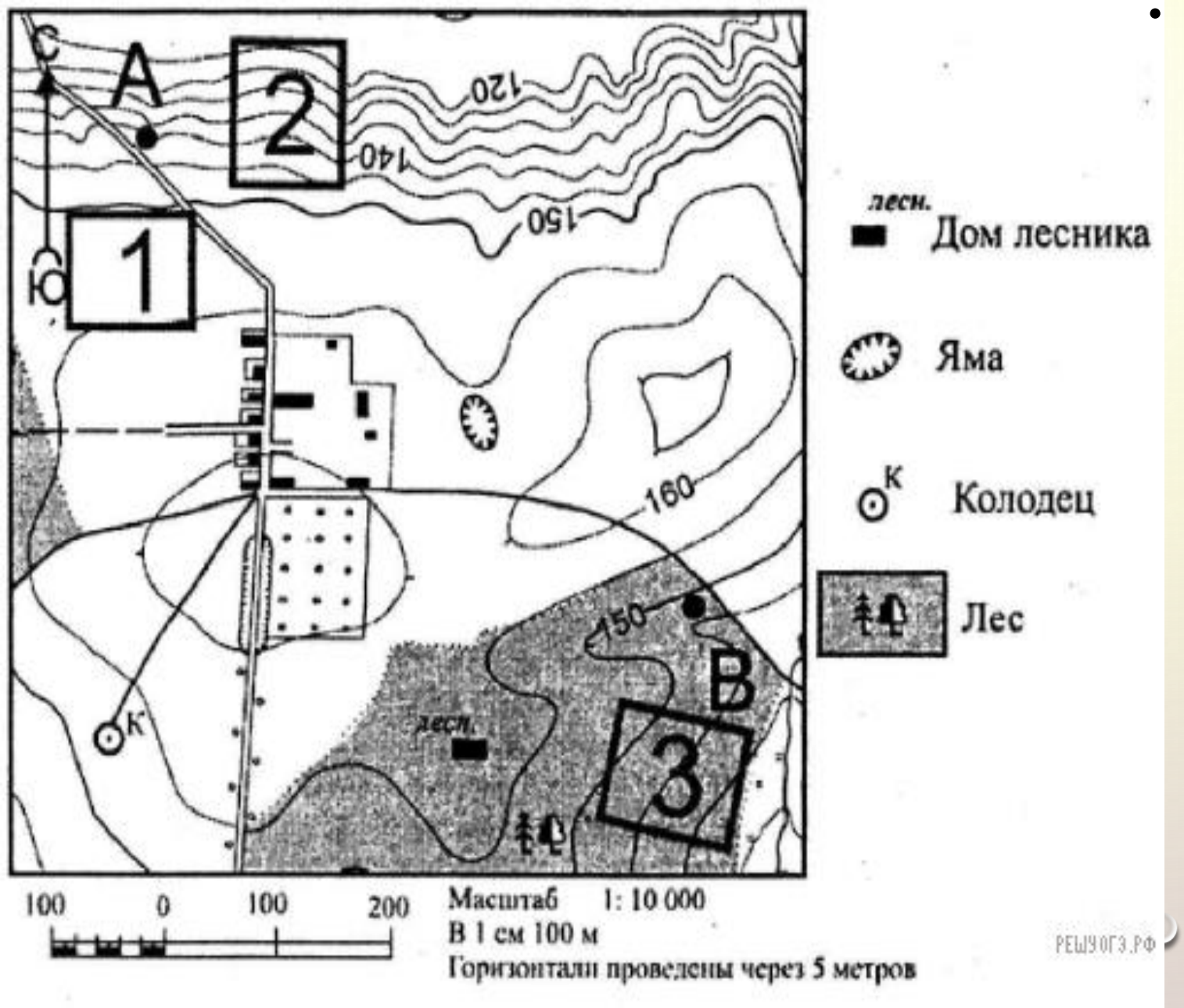

- ШКОЛЬНИКИ ВЫБИРАЮТ МЕСТО ДЛЯ КАТАНИЯ НА САНКАХ. ОЦЕНИТЕ, КАКОЙ ИЗ УЧАСТКОВ, ОБОЗНАЧЕННЫХ НА КАРТЕ ЦИФРАМИ 1, 2 И 3, БОЛЬШЕ ВСЕГО ПОДХОДИТ ДЛЯ ЭТОГО. ДЛЯ ОБОСНОВАНИЯ СВОЕГО ОТВЕТА ПРИВЕДИТЕ ДВА ДОВОДА.

ЗАДАНИЕ №12

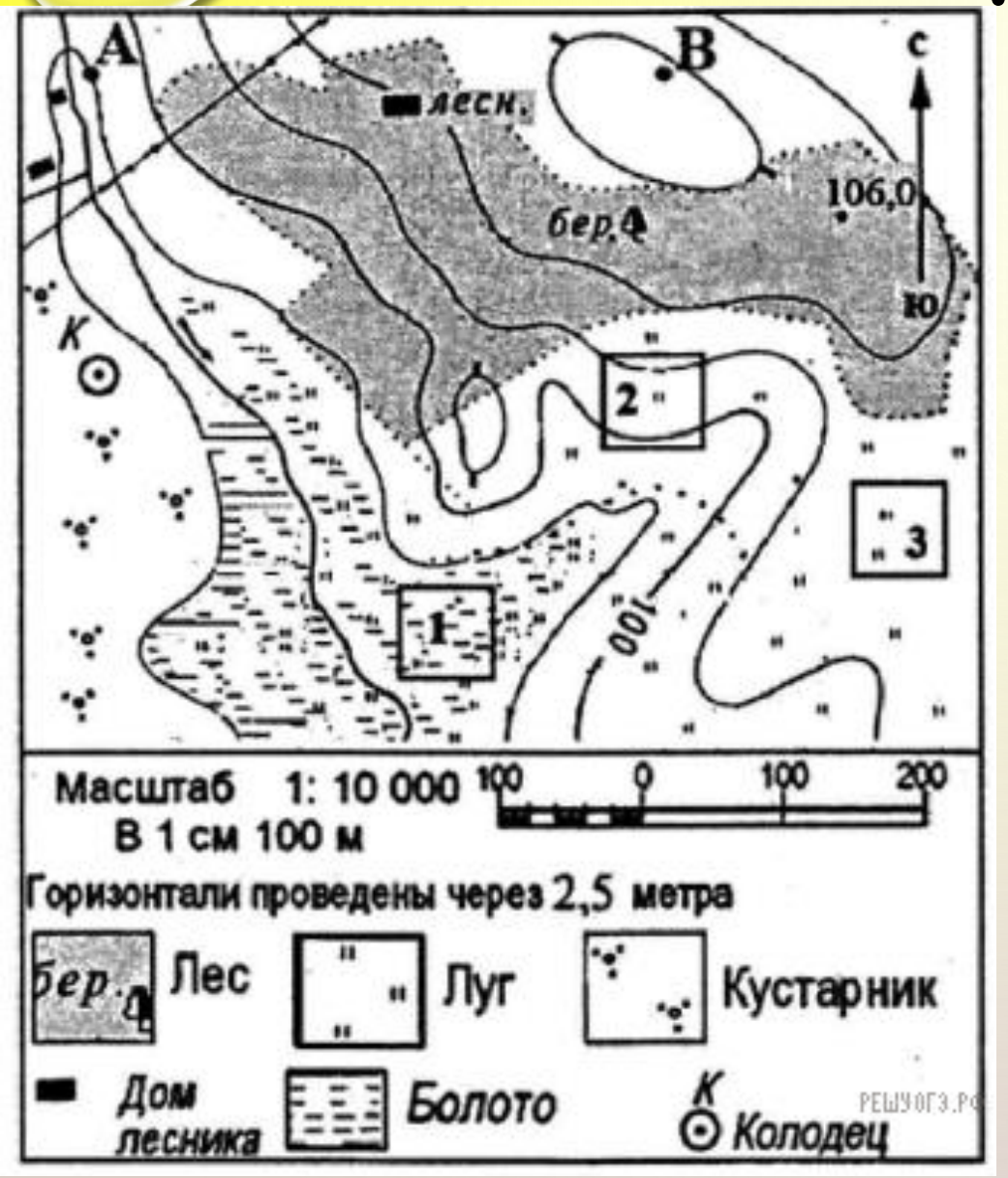

- УЧАСТНИКИ ШКОЛЬНОЙ ВОЛЕЙБОЛЬНОЙ СЕКЦИИ ВЫБИРАЮТ МЕСТО ДЛЯ ОБУСТРОЙСТВА НОВОЙ ВОЛЕЙБОЛЬНОЙ ПЛОЩАДКИ. ОЦЕНИТЕ, КАКОЙ ИЗ УЧАСТКОВ, ОБОЗНАЧЕННЫХ НА КАРТЕ ЦИФРАМИ 1, 2 И 3, НАИБОЛЕЕ ПОДХОДИТ ДЛЯ ОБУСТРОЙСТВА ВОЛЕЙБОЛЬНОЙ ПЛОЩАДКИ. ДЛЯ ОБОСНОВАНИЯ СВОЕГО ОТВЕТА ПРИВЕДИТЕ ДВА ДОВОДА.

ЗАДАНИЕ №12

- ФЕРМЕР ВЫБИРАЕТ УЧАСТОК ДЛЯ ЗАКЛАДКИ НОВОГО ФРУКТОВОГО САДА. ЕМУ НУЖЕН УЧАСТОК, НА КОТОРОМ ВЕСНОЙ РАНО СХОДИТ СНЕГ, А ЛЕТОМ ПОЧВА ЛУЧШЕ ВСЕГО ПРОГРЕВАЕТСЯ СОЛНЦЕМ. ОПРЕДЕЛИТЕ, КАКОЙ ИЗ УЧАСТКОВ, ОБОЗНАЧЕННЫХ НА КАРТЕ ЦИФРАМИ 1, 2 И 3, БОЛЬШЕ ВСЕГО ОТВЕЧАЕТ УКАЗАННЫМ ТРЕБОВАНИЯМ. ДЛЯ ОБОСНОВАНИЯ СВОЕГО ОТВЕТА ПРИВЕДИТЕ ДВА ДОВОДА.

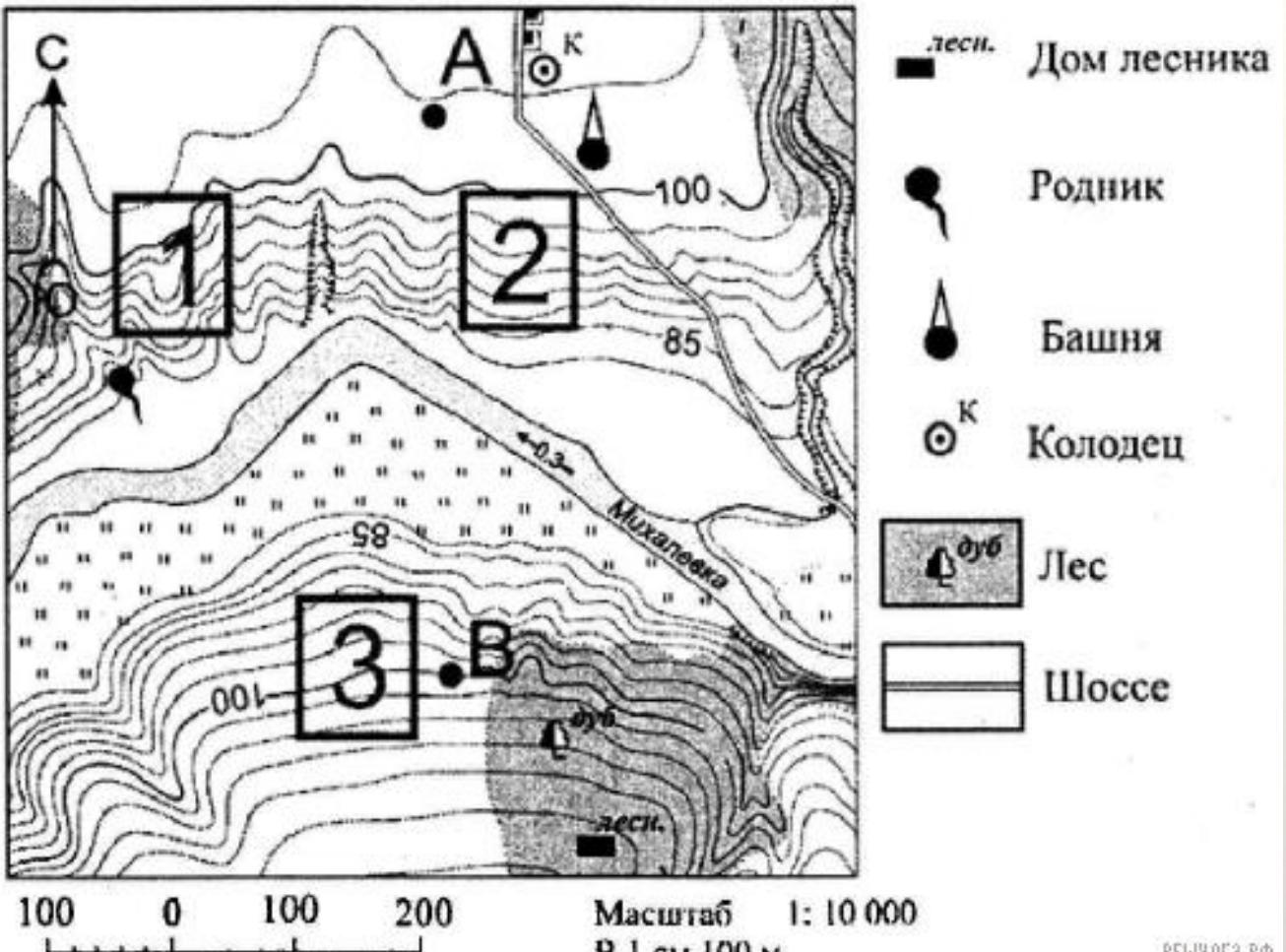

ЗАДАНИЕ №12

- УЧАСТНИКИ ШКОЛЬНОЙ ФУТБОЛЬНОЙ СЕКЦИИ ВЫБИРАЮТ МЕСТО ДЛЯ ОБУСТРОЙСТВА НОВОГО ФУТБОЛЬНОГО ПОЛЯ. ОЦЕНИТЕ, КАКОЙ ИЗ УЧАСТКОВ, ОБОЗНАЧЕННЫЙ НА КАРТЕ ЦИФРАМИ 1, 2 И 3, НАИБОЛЕЕ ПОДХОДИТ ДЛЯ ОБУСТРОЙСТВА ФУТБОЛЬНОГО ПОЛЯ. ДЛЯ ОБОСНОВАНИЯ СВОЕГО ОТВЕТА ПРИВЕДИТЕ ДВА ДОВОДА.

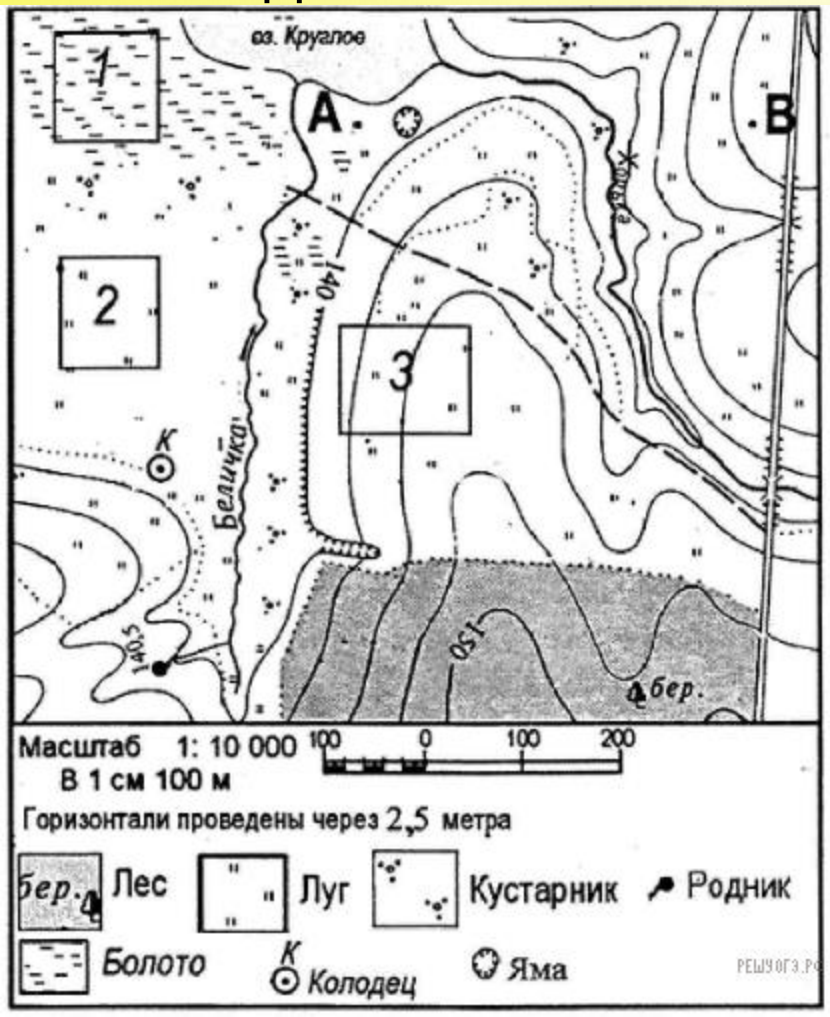

ЗАДАНИЕ №12

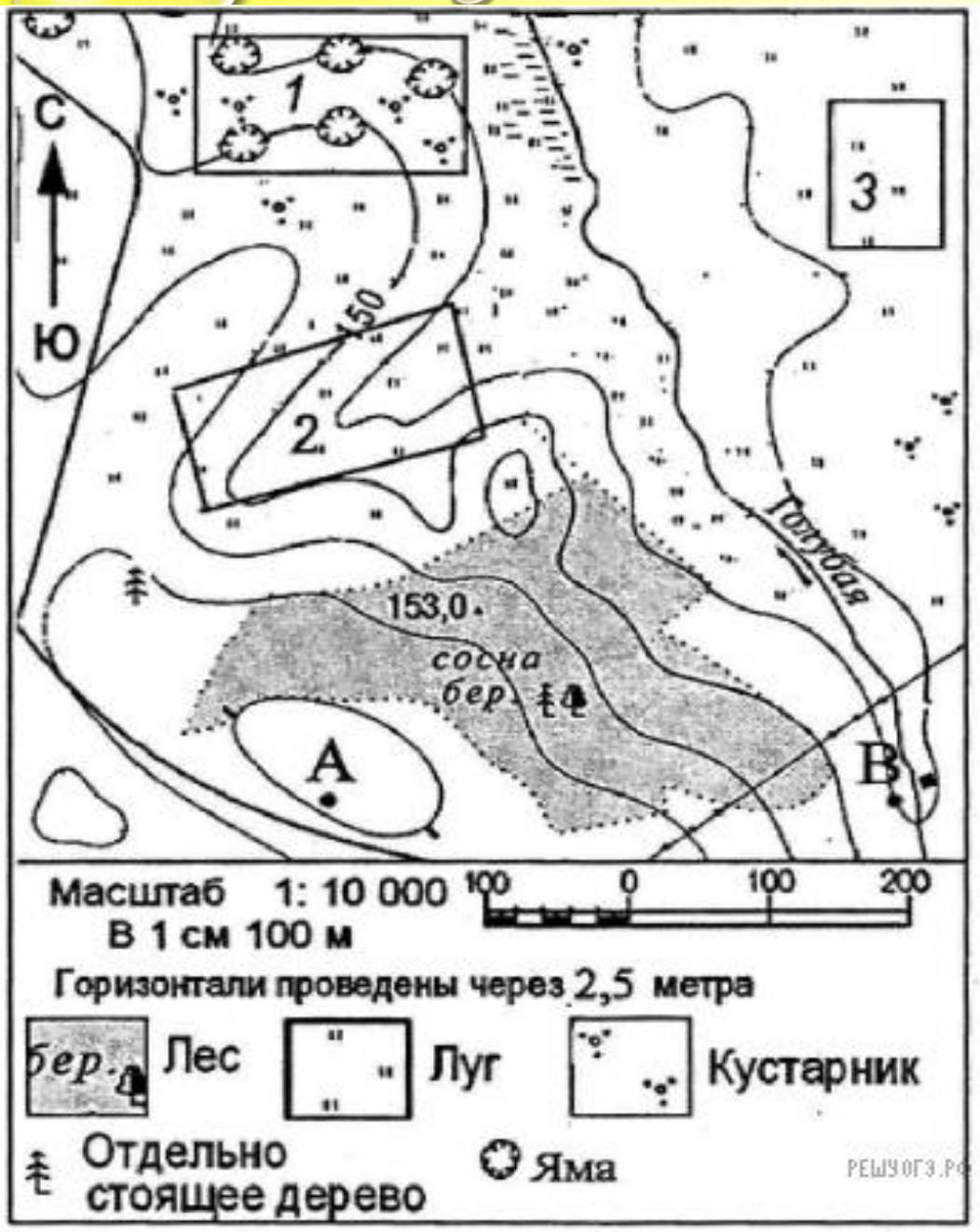

Ваш младший брат зимой хочет покататься с друзьями на санках с горки. Оцените, какой из участков, обозначенных на карте цифрами 1, 2 и 3, наиболее подходит для этого. Для обоснования своего ответа приведите два довода.

ЗАДАНИЕ №12

Школьники выбирают место для занятий горнолыжной секции. Оцените, какой из участков, обозначенных на карте цифрами 1, 2 и 3, больше всего подходит для этого. Для обоснования своего ответа приведите два довода. Ответ запишите на отдельном листе или бланке, указав сначала номер задания.

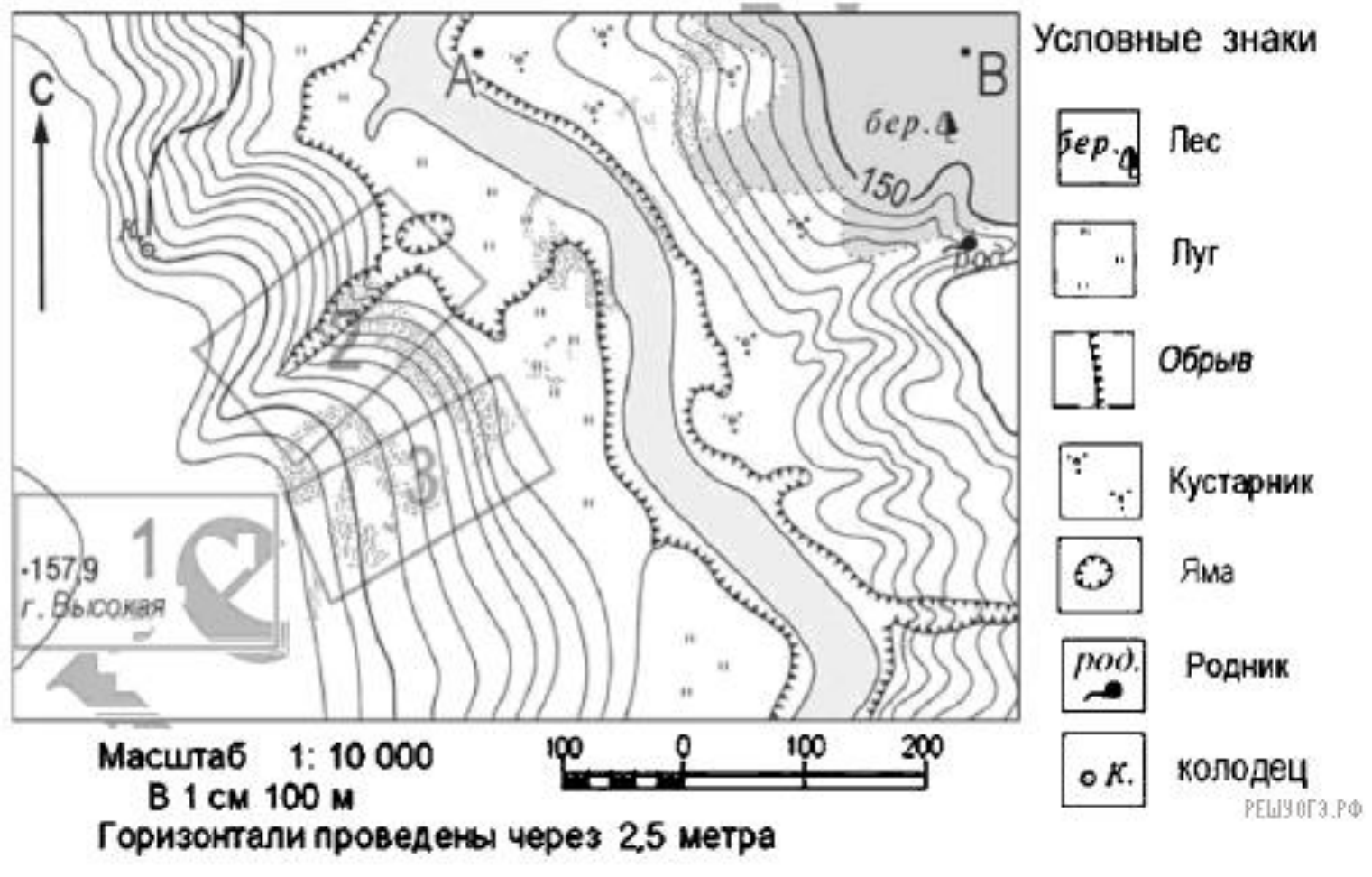

ЗАДАНИЕ №12

ЛЕСНИК ВЫБИРАЕТ УЧАСТОК ДЛЯ ЗАКЛАДКИ НОВОГО ФРУКТОВОГО САДА. ЕМУ НУЖЕН УЧАСТОК, НА КОТОРОМ ВЕСНОЙ РАНО СХОДИТ СНЕГ, А ЛЕТОМ ПОЧВА ЛУЧШЕ ВСЕГО ПРОГРЕВАЕТСЯ СОЛНЦЕМ. САД ТАКЖЕ ДОЛЖЕН ИМЕТЬ РАСПОЛОЖЕНИЕ, УДОБНОЕ ДЛЯ ВЫВОЗА СОБРАННОГО УРОЖАЯ НА КОНСЕРВНЫЙ ЗАВОД. ОПРЕДЕЛИТЕ, КАКОЙ ИЗ УЧАСТКОВ, ОБОЗНАЧЕННЫХ НА КАРТЕ ЦИФРАМИ 1, 2 И 3, В НАИБОЛЬШЕЙ СТЕПЕНИ ОТВЕЧАЕТ УКАЗАННЫМ ТРЕБОВАНИЯМ. ДЛЯ ОБОСНОВАНИЯ СВОЕГО ОТВЕТА ПРИВЕДИТЕ ДВА ДОВОДА.

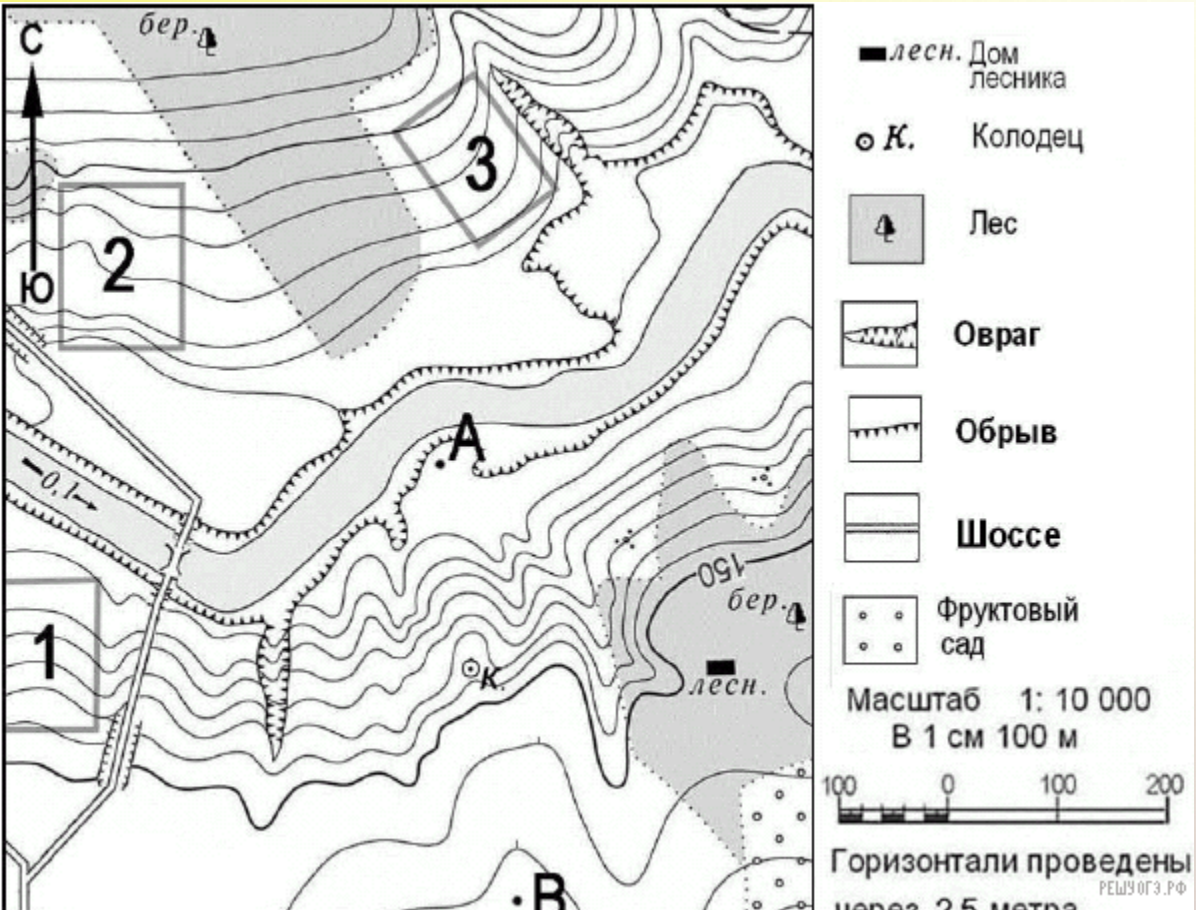

" Без <u>географии</u>
Мы нигде…… "

ГОСУДАРСТВЕННАЯ ИТОГОВАЯ АТТЕСТАЦИЯ
ОГЭ-2022
Ю.А. СОЛОВЬЕВА, Г.Н. ПАНЕВИНА
ГЕОГРАФИЯ
10 ТРЕНИРОВОЧНЫХ ВАРИАНТОВ
ЭКЗАМЕНАЦИОННЫХ РАБОТ
ДЛЯ ПОДГОТОВКИ
К ОСНОВНОМУ
ГОСУДАРСТВЕННОМУ ЭКЗАМЕНУ
НОВЫЕ задания
300 тренировочных заданий
ОГЭ – ШКОЛЬНИКАМ И УЧИТЕЛЯМ
100 БАЛЛОВ

12 ЗАДАНИЕ ✓